Для каждого примера мутационных изменений (А—Г) укажите вид мутации:

Структура хромосом					Вид мутации
до мутации	после мутации				
	А	Б	В	Г	
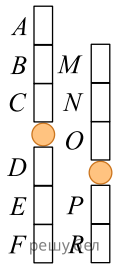	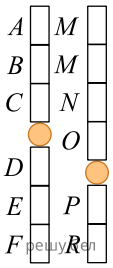	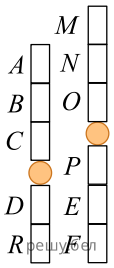	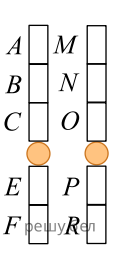	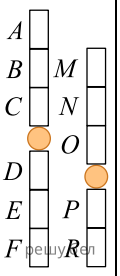	1) делеция 2) инверсия 3) трисомия 4) дупликация 5) полиплоидия 6) трансколация

Ответ запишите в виде сочетания букв и цифр, соблюдая алфавитную последовательность букв левого столбца. Например: А1Б2В2Г1.